# Cantidad Relativa de la Fracción a Entero

Nombre:

**Resuelve cada problema.**

**Ej)** Expresar triangulos como una fracción de todo el conjunto.

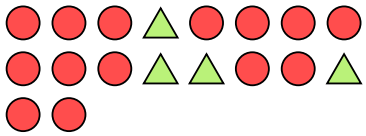

**1)** Expresar moons como una fracción de todo el conjunto.



**2)** Expresar circulos como una fracción de todo el conjunto.

**3)** Expresar cuadros como una fracción de todo el conjunto.

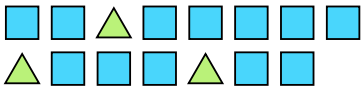

**4)** Expresar triangulos como una fracción de todo el conjunto.

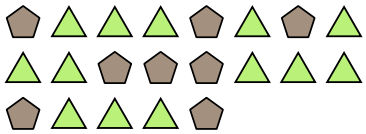

**5)** Expresar triangulos como una fracción de todo el conjunto.

**6)** Expresar moons como una fracción de todo el conjunto.

**7)** Expresar circulos como una fracción de todo el conjunto.



**8)** Expresar moons como una fracción de todo el conjunto.

**9)** Expresar estrellas como una fracción de todo el conjunto.



**10)** Expresar circulos como una fracción de todo el conjunto.



**11)** Expresar pentagonos como una fracción de todo el conjunto.

## Respuestas

Ej. $\frac{4}{18}$

1. _____
2. _____
3. _____
4. _____
5. _____
6. _____
7. _____
8. _____
9. _____
10. _____
11. _____



| | | | | | | | | | | |
|---|---|---|---|---|---|---|---|---|---|---|
| 1-10 | 91 | 82 | 73 | 64 | 55 | 45 | 36 | 27 | 18 | 9 |
| 11 | 0 | | | | | | | | | |

# Cantidad Relativa de la Fracción a Entero

Nombre: **Clave De Respuestas**

**Resuelve cada problema.**

**Ej)** Expresar triangulos como una fracción de todo el conjunto.

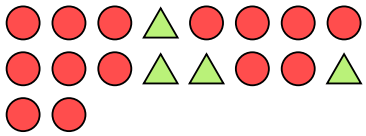

**1)** Expresar moons como una fracción de todo el conjunto.



**2)** Expresar circulos como una fracción de todo el conjunto.

**3)** Expresar cuadros como una fracción de todo el conjunto.

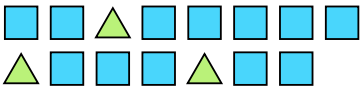

**4)** Expresar triangulos como una fracción de todo el conjunto.

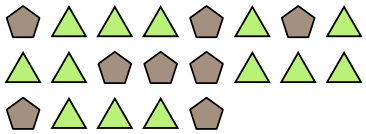

**5)** Expresar triangulos como una fracción de todo el conjunto.

**6)** Expresar moons como una fracción de todo el conjunto.

**7)** Expresar circulos como una fracción de todo el conjunto.



**8)** Expresar moons como una fracción de todo el conjunto.

**9)** Expresar estrellas como una fracción de todo el conjunto.



**10)** Expresar circulos como una fracción de todo el conjunto.



**11)** Expresar pentagonos como una fracción de todo el conjunto.

## Respuestas

| | |
|---|---|
| Ej. | 4/18 |
| 1. | 15/23 |
| 2. | 9/16 |
| 3. | 12/15 |
| 4. | 13/21 |
| 5. | 4/14 |
| 6. | 5/9 |
| 7. | 11/23 |
| 8. | 7/12 |
| 9. | 6/19 |
| 10. | 8/23 |
| 11. | 2/5 |



| | | | | | | | | | | |
|---|---|---|---|---|---|---|---|---|---|---|
| 1-10 | 91 | 82 | 73 | 64 | 55 | 45 | 36 | 27 | 18 | 9 |
| 11 | 0 | | | | | | | | | |