Ubicación del Número negativo en la Recta Numérica

Nombre:

Resuelve cada problema.

1) ¿Qué letra representa mejor -106

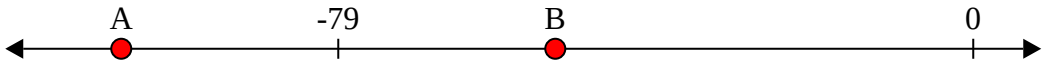

2) ¿Qué letra representa mejor -37



3) ¿Qué letra representa mejor -38

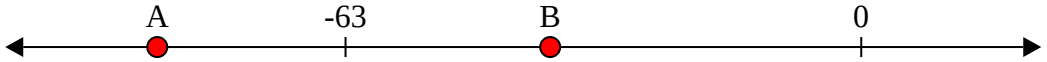

4) ¿Qué letra representa mejor -32



5) ¿Qué letra representa mejor -107



6) ¿Qué letra representa mejor -38



7) ¿Qué letra representa mejor -19



8) ¿Qué letra representa mejor -15



9) ¿Qué letra representa mejor -96

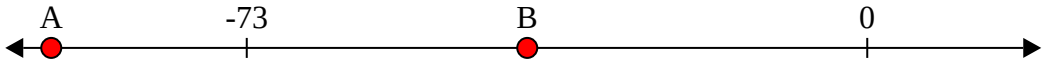

10) ¿Qué letra representa mejor -17



Respuestas

1. _____
2. _____
3. _____
4. _____
5. _____
6. _____
7. _____
8. _____
9. _____
10. _____

1-10	90	80	70	60	50	40	30	20	10	0

Ubicación del Número negativo en la Recta Numérica Nombre: **Clave De Respuestas**

Resuelve cada problema.

1) ¿Qué letra representa mejor -106

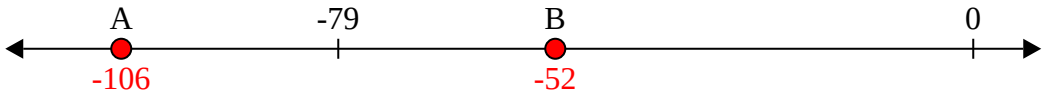

2) ¿Qué letra representa mejor -37



3) ¿Qué letra representa mejor -38

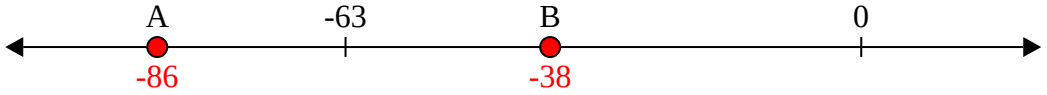

4) ¿Qué letra representa mejor -32

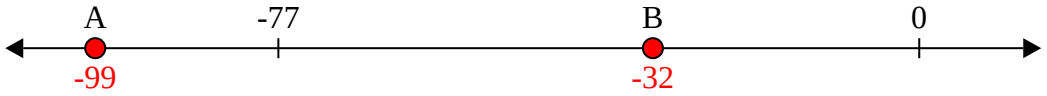

5) ¿Qué letra representa mejor -107

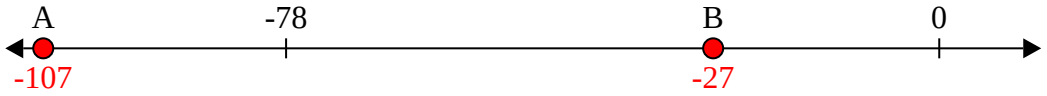

6) ¿Qué letra representa mejor -38

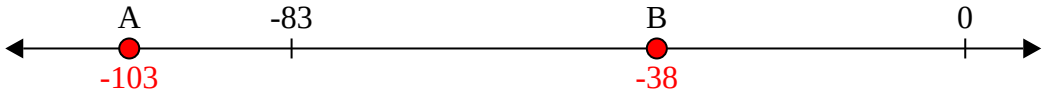

7) ¿Qué letra representa mejor -19

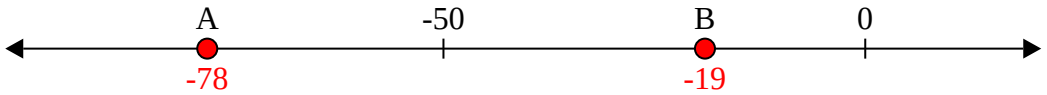

8) ¿Qué letra representa mejor -15

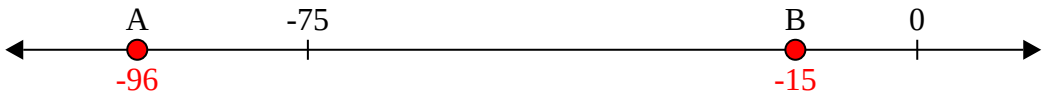

9) ¿Qué letra representa mejor -96

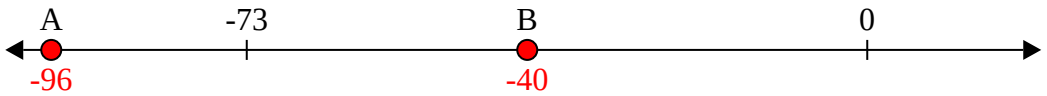

10) ¿Qué letra representa mejor -17

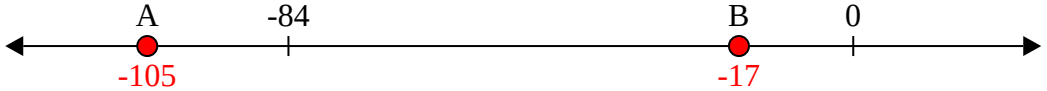

Respuestas

1. **A**
2. **B**
3. **B**
4. **B**
5. **A**
6. **B**
7. **B**
8. **B**
9. **A**
10. **B**

1-10	90	80	70	60	50	40	30	20	10	0